澎湖縣白沙鄉赤崁國小一〇四學年度第二學期三年級數學期末考試卷

範圍：第五～九單元　　座號：＿＿　姓名：＿＿＿＿　得分：＿＿＿＿

一、用直式算算看：(每題3分，共12分)

(1) 6.9＋8.3＝(　　)　(2) 20.1－6.8＝(　　)

(3) (　　)×6＝804　　(4) 9×(　　)＝675

二、填填看：(每格2分，共44分)

1. 想一想， 裡的答案是多少？

2. 填填看，有多少水？

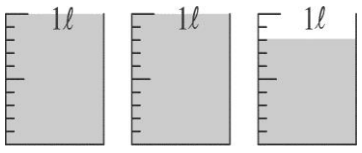

(　　)公升(　　)毫升＝(　　)毫升

3. 用表示 1，表示 0.1。數數看，下面一共是幾條積木？

(1)(　　)條積木

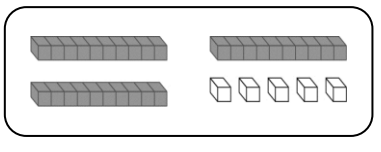

(2)(　　)條積木

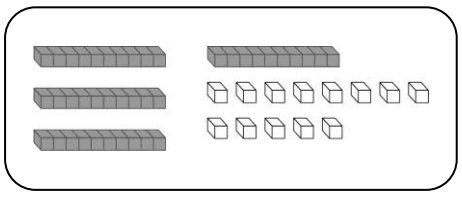

4. (1) 5 公分 8 毫米＝(　　)公分

(2)150 毫米＝(　　)公分

5. (1)46×7＝322，322÷7＝(　　)
(2)654÷6＝109，109×6＝(　　)

6. (1)十分位數字是 6，個位數字是 7，十位數字是 1 的數是(　　)。

(2) 9 個 0.1、2 個 1 和 8 個 10 合起來是(　　)。

7. 下面圖形的面積各是多少平方公分？

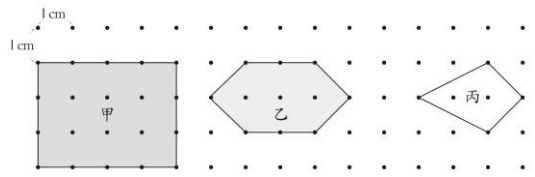

(1)甲：(　　)平方公分

(2)乙：(　　)平方公分

(3)丙：(　　)平方公分

8. 看圖回答問題

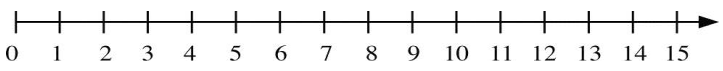

(1)從 3 的位置往右移動 9 格，會到哪一個數字？(　　)

(2)從 15 的位置往左移動 7 格，會到哪一個數字？(　　)

9. 正確的在(　)裡畫○，不對的打×。

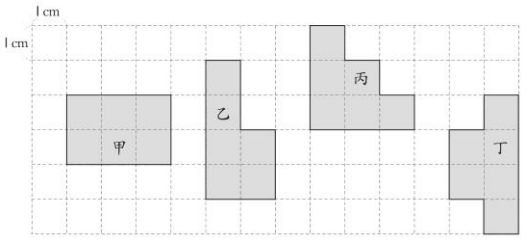

(　　)(1)甲和乙的面積相同，周長也一樣長。

(　　)(2)甲和丙的面積相同，但周長不一樣長。

(　　)(3)甲和丁的面積相同，周長也一樣長。

(　　)(4)乙、丙、丁的面積相同，周長也一樣長。

背面還有題目，加油！

三、比比看，在□裡填入＞、＜或＝：(每題2分，共8分)

(1) 98 毫米 □ 9 公分 9 毫米

(2) 12.6 公分 □ 130 毫米

(3) 0.6 公升 □ 600 毫升

(4) 1 公升 700 毫升 □ 1070 毫升

四、畫畫看，做做看：(共8分，第1題2分，第2、3題3分)

1. 用尺畫出一條長 5.8 公分的直線。

2. 畫出兩個面積都是 10 平方公分，但形狀不同的圖形。

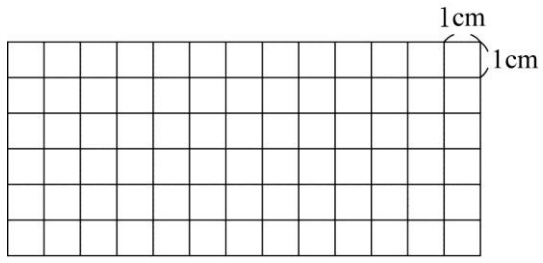

3.在下面的數線上，把 0.8、 2.6、 1.9 的位置標示出來。

五、應用題：（每題4分，共28分）

1. 佑穩的加油棒長13公分6毫米，旻宥的加油棒長168毫米，兩人的加油棒長相差幾毫米？

2. 一包薏仁0.6公斤，一包綠豆1.8公斤，合起來一共有多少公斤？

3. 工廠生產了一些原子筆，每8枝裝成一盒，一共裝成62盒，還剩下4枝，工廠生產了幾枝原子筆？[用有(　)的除法算式記問題]

4. 射氣球遊戲，玩一次射7枝飛鏢，玩幾次可以射252枝飛鏢？[用有(　)的乘法算式記問題]

5. 維芯摺了168顆星星，每若干顆串在一起，剛好串成8串，每串有幾顆星星？[用有(　)的除法算式記問題]

6. 油箱裡已經裝了3800毫升的汽油，還要加幾公升幾毫升的汽油，才會有5公升500毫升？

7. 媽媽用80毫升的檸檬原汁和2公升40毫升的水做成一壺檸檬汁，這壺檸檬汁有幾公升幾毫升？

恭喜你完成，請再仔細檢查