澎湖縣白沙鄉赤崁國小一〇七學年度第一學期四年級數學期末考試卷

範圍：第六～十單元　　**座號：_____　姓名：_____　得分：_____**

一、算算看，前4題列出直式：(每題3分，共15分)

(1) 50公升－45公升8毫升＝(　　)公升(　　)毫升

(2)95公斤－66公斤77公克＝(　　)公斤(　　)公克

(3) 4.48＋ 5.62＝ (　　)

(4) 10－ 0.34＝ (　　)

(5) 在□裡填入正確的數字

$$\begin{array}{r} 2.\square\ 9 \\ +\ 3.9\ 8 \\ \hline \square.0\ \square \end{array}$$

二、填填看：(每格2分，共22分)

(1) 7 個 1、5 個 0.1 和 8 個 0.01 合起來是(　　)。

(2)把帶分數換成假分數，假分數換成帶分數。

①$3\frac{5}{9}$ ＝(　　)　　②$\frac{37}{26}$＝(　　)

(3)羽喬的身高是 1.39 公尺，也可以說是(　　)公尺(　　)公分。

(4)在□裡填入＞、＜或＝

①(576＋348)－157 □ 576＋(348－157)

②(95×20)×50 □ 95×(20×50)

③600÷(30÷5) □ (600÷30)÷5

(5) 3.06→3.07→(　　)→3.09→(　　)

(6)比$\frac{11}{18}$小，而且分母是 18 的真分數共有幾個？

(　　)個。

三、看圖回答問題：(每格2分，共18分)

1.下圖是甲地去年平均氣溫的折線圖。

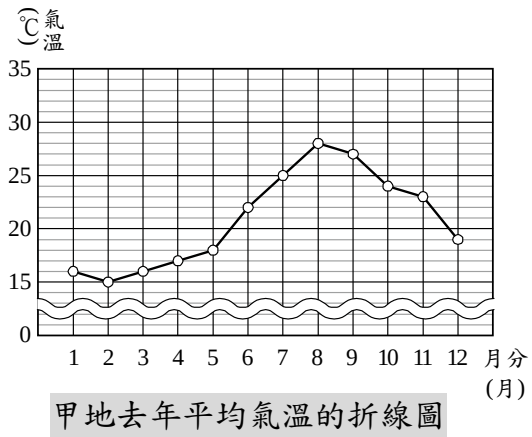

甲地去年平均氣溫的折線圖

(1)6 月和 8 月的平均氣溫相差(　　)度。

(2)哪兩個月的平均氣溫相同？(　　)月和(　　)月，都是(　　)度。

(3)平均氣溫最高和最低相差了(　　)度。

2.下圖是哥哥這個月打工收入的分配情形長條圖。

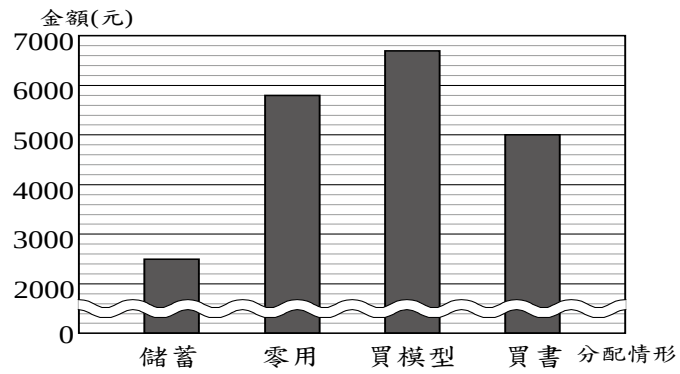

哥哥這個月打工收入的分配情形長條圖

(1)哥哥這個月的儲蓄是(　　)元。

(2)哥哥這個月哪一項的花費最多？(　　)

3. 合起來是多少張百格板？

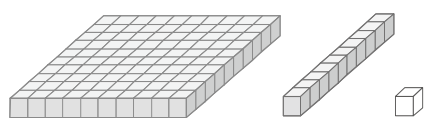

1 張　　0.1 張　0.01 張

(1)下列合起來是(　　)張百格板。

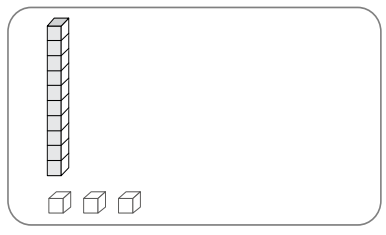

背面還有題目，加油！

(2)下列合起來是(　　)張百格板。

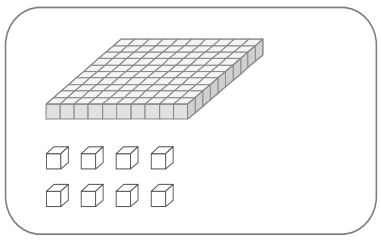

四、應用題：（每題5分，共45分）

1. 把 180 個鳳梨酥，每 12 個裝一盒，每盒賣 300 元，一共可以賣多少元？(把問題用一個算式記下來)

2. 快樂花園這個月生產三種玫瑰花，其中有 163 朵紅玫瑰、85 朵黃玫瑰，白玫瑰比黃玫瑰多 35 朵，那麼紅玫瑰和白玫瑰相差幾朵？(把問題用一個算式記下來)

3. 有一瓶果汁，佳誼喝掉 $\frac{5}{9}$ 公升後，還剩下 $1\frac{7}{9}$ 公升，這瓶果汁原來有多少公升？

4. 慶生會時，每組分到 $\frac{3}{2}$ 公升的果汁，7組共分到多少公升的果汁？

5. 老師買了8包巧克力共重2公斤16公克，1包巧克力重多少公克？

6. 一瓶檸檬汁有2公升375毫升，買7瓶共有幾公升？

7. 鋪路工人在鋪柏油路，馬路全長10公里，工人已經完成7.45公里，還剩下幾公里沒完成？

8. 一隻雞重1.97公斤，一隻鵝重2.53公斤，一隻雞和一隻鵝共重多少公斤？

9. 小瓶綠茶每瓶 $\frac{6}{10}$ 公升，大瓶綠茶每瓶 $\frac{12}{10}$ 公升。買8瓶小瓶綠茶的錢，剛好可以買3瓶大瓶綠茶，哪一種包裝的綠茶比較便宜？(答案是假分數時要換成帶分數或整數)

恭喜你完成，請再仔細檢查!