澎湖縣白沙鄉赤崁國小 110 學年度第 1 學期 二年級數學科期末評量

座號：___ 姓名：_____ 家長簽名：_____

一、 勾選題：(每個答案 2 分， 共 2 分)

1. 哪一個披薩比較**重**？在□裡打√。

將一個披薩切成 4 片。

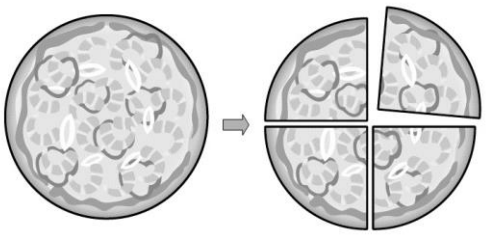

□ □ □一樣重

二、 填填看：(每個答案 2 分， 共 22 分)

1. 8＋8＋8＋8＋8＋8＋8＝8×(　　)

2. 7×9 比 7×6 多了(　　)個 7，

是多了(　　)。

3. 3×5＝(　　)，積是(　　)，被乘數

是(　　)，乘數是(　　)。

4. 9 個一數。



三、 看圖回答問題：(每個答案 2 分， 共 22 分)

1. 量量看，下面哪些圖形是**正三角形**？(　　)、(　　)

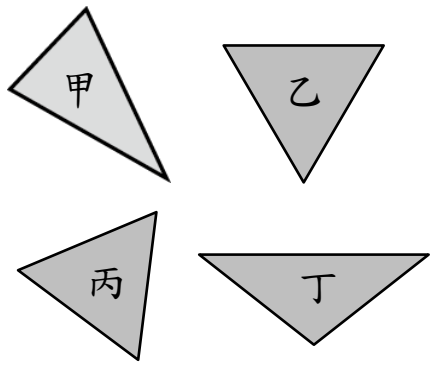

2.

剪刀	釘書機	橡皮擦
53 元	71 元	18 元

(1)小宇買一把剪刀、一個釘書機和一個橡皮擦，共花了(　　)元。

(2)小凱有 90 元，買一把剪刀和一個橡皮擦後，還剩下(　　)元。

3. 按照水量**由多到少**在□裡填入 1、2、3 的順序。

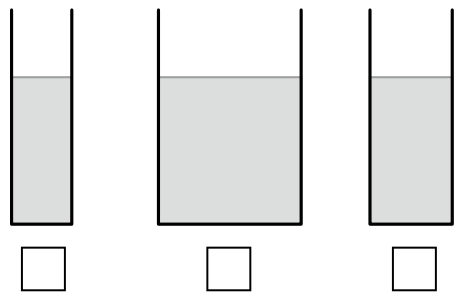

4.

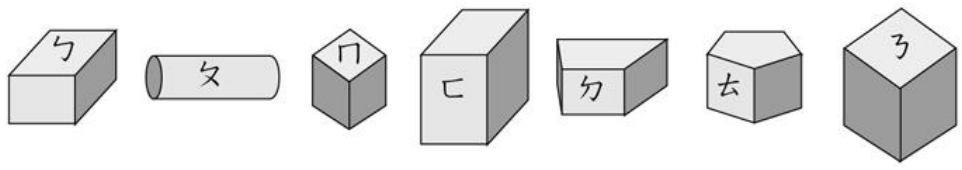

(1)哪些是**正方體**？(　　)、(　　)

(2)哪些是**長方體**？(　　)、(　　)

四、 看表填填看：(每個答案 2 分， 共 6 分)

1. 完成下面的表格：

形體	頂點	邊	面
長方體 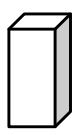	8 個	(　　)條	6 個
正方體	(　　)個	12 條	(　　)個

五、 看圖填填看：(每個答案 2 分， 共 24 分)

1. 按照重量由重到輕，在□裡寫上 1、2、3。

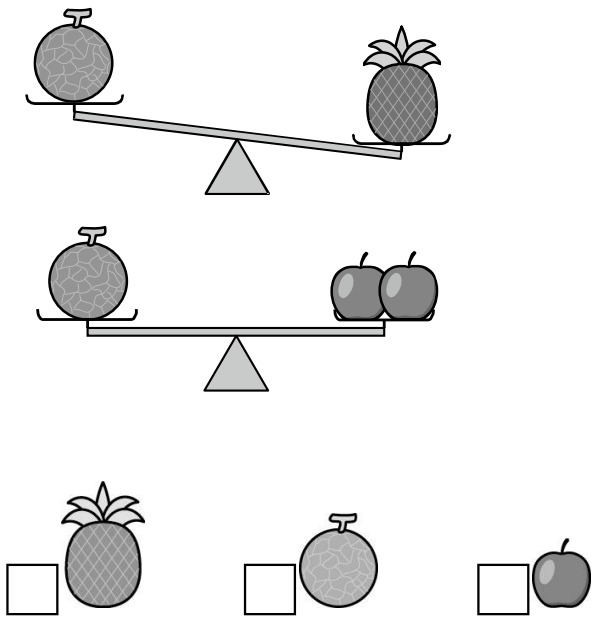

2. 哪一個比較重？



(1) 和(　　)個 ▭ 一樣重。

(2) 和(　　)個 ▭ 一樣重。

(3)哪一個比較重？圈圈看。

(，)

3. 下圖是由正三角形和正方形所組成的圖形，(　　)中的長度是幾公分？

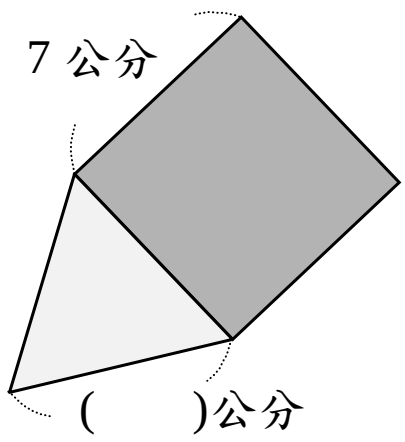

4. 下圖是一個長方形，(　　)中的長度是幾公分？

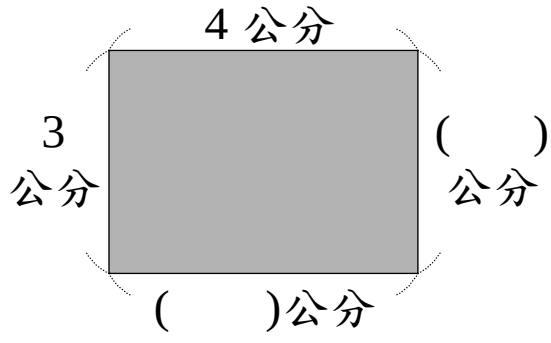

5. 將適當的代號填入(　　)中。

ㄅ.頂點　　ㄆ.邊　　ㄇ.角

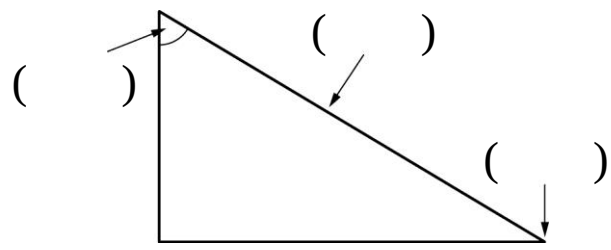

六、 應用題：(每題 3 分， 共 24 分)

1. 紅紙有 51 張、藍紙有 23 張、黃紙有 39 張，這三種紙共有幾張？

算式：

答：(　　)張

2. 橘繩長 33 公分、綠繩長 59 公分、黑繩長 37 公分，把這三條繩子接排起來共長幾公分？

算式：

答：(　　)公分

3.一盒餅乾有 7 片，8 盒餅乾共有多少片？

算式：

答：(　　)片

4. 下圖有幾個泡芙？用**乘法**算式記記看。

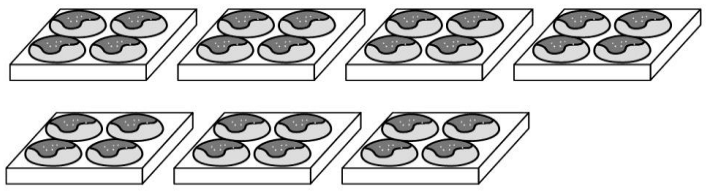

算式：

答：(　　)個

5. 一張貼紙賣 6 元，小澄買 7 張，一共要付多少元？用**連加**算式記記看。

算式：

答：(　　)元

6. 桌上有 25 粒韭菜水餃和 35 粒豬肉水餃，小辰和小龍吃了 46 粒，還剩下幾粒水餃？

算式：

答：(　　)粒

7. 一枝鉛筆賣 9 元，小嘉買 8 枝鉛筆共要付多少元？

算式：

答：(　　)元

8. 停車場裡原有 37 輛車，小安開走 18 輛後，又開進 24 輛，現在停車場裡有幾輛車？

算式：

答：(　　)輛

【試題結束，請記得檢查考卷！】