澎湖縣白沙鄉赤崁國民小學一〇四學年度第二學期數學科期中評量卷

二年級　　姓名：＿＿＿＿＿＿

① 數數看，有多少？8%

1.

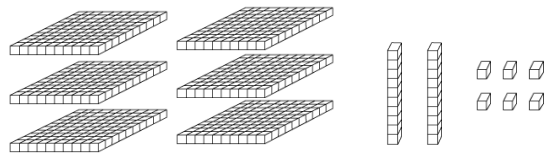

(　　)個

2.

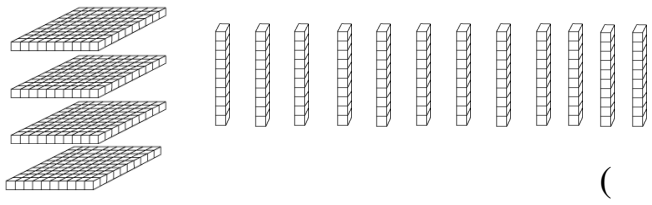

(　　)個

3. 500 100 100 100 100

10 10 10 10 10 10 10 1 1 1 1 1 1 1　　(　　)元

4. 100 100 100 100 100 100 100

50 10 10 10 1 1 1 1 1 1　　(　　)元

② 按照順序填填看。 10%

1. 540→550→(　　)→570→580→(　　)→(　　)

2. (　　)→436→536→(　　)→(　　)→836→(　　)

3. 990→989→(　　)→(　　)→986→(　　)→984

③ 填填看。 20%

1. 麵包 10 個裝一盒，100 個裝一箱。老闆做了 638 個麵包，可以裝成(　　)箱又(　　)盒，還剩下(　　)個。
2. 402 可以分成 (　　)個一、(　　)個十和 (　　)個百。
3. 5 個百和 17 個一合起來是(　　)。
4. 個位數字是 9，十位數字是 2，百位數字是 8 的三位數是(　　)，這個數讀作(　　)。
5. 3 個百、14 個十和 6 個一合起來是(　　)。
6. 「三百零五」用阿拉伯數字記作(　　)。
7. 用 9 5 0 1 排出最大的三位數是(　　)，最小的三位數是(　　)。
8. 1 張 1000 可以換成(　　)張 100；也可以換成(　　)張 500。
9. 4 公尺 23 公分＝(　　)公分
10. 294 公分＝(　　)公尺(　　)公分
11. 10 公尺＝ (　　)公分
12. 比 706 少 30 的數是(　　)。

④ 算算看，並驗算。 12%

1. 348－262＝(　　)　　驗算：

2. 124＋236＝(　　)　　驗算：

3. 83＋629＝(　　)　　驗算：

4. 821－415＝(　　)　　驗算：

⑤ (　　)裡的數是多少？算算看。8%

1. (　　)－32＝39

2. 21＋(　　)＝85

3. (　　)＋24＝63

4. 71－(　　)＝48

⑥ 比比看，在□裡填入＞、＜或＝。10%

1. 八百五十 □ 五百零八
2. 423 公分 □ 423 公尺
3. 2 公尺 32 公分 □ 232 公分
4. 5 公尺 □ 50 公分
5. 6 公尺 □ 600 公分

⑦ 想一想，對的畫〇，錯的畫╳。5%

1. (　　)冰箱的高度大約有 20 公尺。
2. (　　)我的身高大約有 3 公尺。
3. (　　)彩色筆比 1 公分長。
4. (　　)天平不適合用來量長度。
5. (　　) 4 條 1 公尺長的繩子接在一起，一共長 40 公尺。

＊ ＊ ＊ 後面還有題目，加油！＊ ＊ ＊

⑧ 看圖想一想，畫畫看。 6%



1.安安想買最便宜的那隻玩偶，請用 100、⑩和①付。

2.育育想買最貴的那隻玩偶。請用 100、和⑤付。

3. 最貴的玩偶和最便宜的玩偶相差多少元？(先畫畫看，再寫出答案)

相差(　　) 元

⑨ 把做法和答案記下來。 9%

1.籃球一個 349 元，買 2 個共要多少元？

答：

2.甲、乙兩數各是三位數，這兩數相差多少？

甲數：它的個位數字是 4、十位數字比個位數字多 1、百位數字是個位數字的 2 倍。

乙數：它的百位數字是 3、十位數字和百位數字一樣、個位數字是百位數字的 2 倍。

答：

3.農場上有 789 隻雞，鵝比雞少 298 隻，農場上有幾隻鵝？(先算一算，再驗算)

答：

⑩ 用有(　)的算式記問題，再算算看。12%

1.魚缸裡現在有43條魚，再買幾條就會有81條魚？

答：

2.一條尼龍繩長290公分，用掉一些後，還剩下36公分，用掉幾公尺幾公分？

答：

3.餐廳裡有一些人，後來又進來15人，現在餐廳裡有92人，餐廳裡原來有幾人？

答：

4.便利商店的書報架上有一些雜誌，賣出47本後，還剩下53本，原來共有幾本雜誌？

答：

＊ ＊ ＊ 寫完記得檢查喔！ ＊ ＊ ＊